Stejnou barvou označte stejné délky.

**a)**

50 cm  0,5 dm  $\frac{1}{2}$ m  5 cm  50 dm

5 dm  1 dm : 2  5 m  1 m : 2  $\frac{1}{2}$ dm

**b)**

0,25 m  $\frac{1}{4}$ dm  250 cm  1 m : 4  2,5 dm

25 dm  $\frac{1}{4}$ m  25 cm  0,25 dm  2,5 m

Postavte tělesa. Doplňte k nim podlažní plány.

**a)**

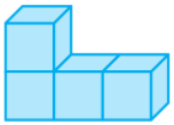

**b)**

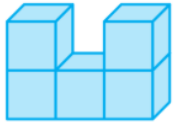

**c)**

**d)**

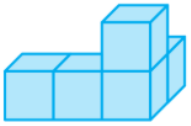

Vyřešte mincové rovnice a přepište je do číselných.

**a)**

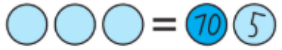


číselná rovnice:

**b)**

číselná rovnice:

**c)**

číselná rovnice:

**d)**

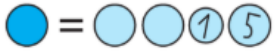


číselná rovnice:

**e)**

číselná rovnice:

**f)**

číselná rovnice:

Zjistěte aspoň 3 aktuální nabídky mobilních operátorů (např. neomezené volání, tarif s volnými minutami apod.) a vyberte pro členy rodiny Hadrabových nejvýhodnější varianty.

- Děda Aleš měsíčně protelefonuje přibližně 1 hodinu.
- Jeho syn Boris přibližně 2,5 hodiny.
- Jeho vnučka Cecílie přibližně 7 hodin.

Kolik asi každý z nich utratí měsíčně za telefon?

| | | | | | | | | | |
|---|---|---|---|---|---|---|---|---|---|
| | | | | | | | | | |
| | | | | | | | | | |
| | | | | | | | | | |